

Aufgabe 1) Schwarz am Zug gewinnt.



Aufgabe 3) Die schwarze Dame ist angegriffen. Wie reagiert Schwarz nun?



Aufgabe 2) Der letzte Zug von Weiß war 16.Se5-c6??. Wie kommt Schwarz nun zu entscheidendem Vorteil?

(Diagramm)



Aufgabe 4) Weiß am Zug gewinnt.

(Diagramm)



Aufgabe 5) Weiß am Zug hält remis: Was ist hier der richtige Plan?



Aufgabe 7) Finde die stärkste Fortsetzung für Schwarz.



Aufgabe 6) Weiß am Zug: Finde die stärkste Fortsetzung.

(Diagramm)



Aufgabe 8) Finde das schnellste Matt für Weiß.

(Diagramm)



Aufgabe 9) Die Spielerin mit Weiß gerade auf e6 einen Springer geopfert, um den schwarzen König herauszulocken. Wie setzt sie ihren Angriff nun fort?



Aufgabe 10) Schwarz am Zug.



Aufgabe 11) Weiß am Zug.



Aufgabe 12) Der letzte weiße Zug war 22.g3, um das Matt auf h2 abzuwehren. Wie setzt Schwarz jetzt seinen Angriff fort?